BURSA İL MİLLÎ EĞİTİM MÜDÜRLÜĞÜ

2023 Eğitim VİZYON

EVİM İLKOKULUM

HAFTALIK FASİKÜL IV

4. sınıf

BURSA İL MİLLÎ EĞİTİM MÜDÜRLÜĞÜ

Sabahattin DÜLGER
İl Milli Eğitim Müdürü

Ekrem KOZ
İl Milli Eğitim Müdür Yardımcısı

Koordinatör
Gürhan DİKMEN

Hazırlayanlar
Ahmet ATASAYAR
Emine HOLEP
İbrahim Çağrı OĞUZ
İbrahim Halil DEMİR
Mehmet Fatih BÜTÜN
Serap AKA
Tuğçe KANSU

Grafik Tasarım
Fatih DEVECİOĞLU
Nuray ŞENTÜRK

2020/BURSA

Hocahasan Mah.
İlkbahar Cad. No38 Yeni
Hükümet Konağı A Blok
16050 Osmangazi/BURSA

0(224) 445 16 00
0(224) 445 18 10

https://bursa.meb.gov.tr

YARIM ÇORAP

Kış yüzünü göstermiş soğuk ve ardından kar, şehri esir almıştı. Fatma, nemlenmiş camda parmaklarıyla şekiller yapmaya çalışırken çift taraflı kapı tekrar açıldı.

Gece o ana kadar sakin geçiyordu. Arada, bir iki vaka olmuyor değildi: yüksek tansiyon, böbrek taşı sancısı çekenler ve de müdavimler. Bu müdavimler, hastalık hastası olanlardı. Kendilerini zorla hasta olduklarına inandıranlardı.

Sedye, Fatma doktorun yanında durdu. Sedyede yatan her halinden de anlaşıldığı gibi evsizlerden biriydi. Üstüne giydiği kat kat giyseler çıkartıldıkça ortada zayıf bir beden kalıverdi. Bu zayıf beden, elindeki poşeti sıkı sıkı tutuyordu. Hemşireler dahil kimse parmaklarından poşeti kurtaramıyordu. Fatma, çözümü poşeti makasla kesmekle buldu. Adamcağız poşetin saplarını sımsıkı tutuyor bırakmıyordu.

Makasın hareketiyle yere düşen poşetten etrafa şişler, bitmemiş bir çorap ve çok küçük bir ip yumağı saçılmıştı. Fatma, birden duraksadı. Yere düşen çorabı aldı. Desenlerine dikkatlice baktı. Hiç yabancı gelmemişti. Sonra adamın yatan adamın yüzüne baktı. Saçı sakalı birbirine karışmış halde acile getirilen adam, sokakta donmak üzereyken bulunmuştu.

Damar yolu açılan adama serum bağlanmış sonrasında da müşahede odasına alınmıştı. Gece yarısına kadar tek tük vakalar olduysa da hiçbirisi yaşlı adamınki kadar ciddi değildi. Zorlukla nefes alan adam oksijen maskesi takılınca rahatlamış görünüyordu. Fatma elindeki yarım çoraba tekrar bakınca birden duraksadı. Bu o olabilir miydi? Elindeki patiğe tekrar tekrar baktı. Aklında hiçbir şüphe kalmamıştı. Gerçekten de o adamdı.

Elini tutup öptü. Tekrar tekrar tekrar öptü. Otuz beş yıl öncesiydi. Yine böyle bir kış günü kar yağmıyor fakat ortalık ayaz mı ayaz. Üstünde palto olmaksızın yazlık ayakkabılarla okul bahçesinden çıkarken kolundan tutmuştu. Yeni ördüğü yün çorapları ellerine tutuşturmuştu. Karşılığında da ufacık bir gülümseme almıştı. Ördüğü tüm çoraplarda aynı desen vardı. El ele tutuşan çocuklar motifi. O kış o çoraplar sayesinde o kadar da soğuk geçmemişti .

Yaşlı adam gözlerini açtığında poşeti elindeydi İçinde de şişleri ve tamamlanmış bir çift çorap vardı. İhtiyacı olan bir çocuğu ısıtsın diye.

a) Hikayeyi beş kez okuyalım. Hikayeden aklımızda kalanları aşağıya yazalım.

……

……

……

……..

……

……

……

……

b) Hikayenin adı, kahramanları, anlatılan olay, anafikri, yer ve zamanını da bir sonraki sayfada yer alan etkinliğe yazalım. Daha sonra uygun yerleri boyayalım.

4. SINIF ETKİNLİKLERİ

~ Türkçe ~

Kahramanlar:.....
.....
.....
.....
.....
.....

Zaman:.....
.....
.....
.....
.....

Yer:.....
.....
.....
.....
.....

Adı:

Anafikir :
.....
.....
.....
.....
.....
.....
.....

Anlatılan Olay:
.....
.....
.....
.....
.....
.....
.....
.....
.....
.....
.....



4. SINIF ETKİNLİKLERİ

~ Türkçe ~

❖ Görsellerdeki kültürel oyunlarımızın adlarının neler olduğunu ve oyunlar hakkında kısa bilgiler yazalım.

……
……
……
……
……
……

……
……
……
……
……
……



……
……
……
……
……
……

……
……
……
……
……
……

EŞ SESLİ (SESTEŞ) KELİMELER

❖ Aşağıdaki kelimelerle farklı anlamlarda cümleler yazınız .

el

.....

.....

yaş

.....

.....

yaz

.....

.....

düş

.....

.....

YAZIM KURALLARI ÇALIŞMASI

❖ Aşağıdaki cümlelerde yapılan yazım yanlışlarını bulup, düzelterek doğru cümleyi yeniden yazınız.

Atatürk 10 kasım 1938'de hayata gözlerini yumdu

……

Bu kitap sizde varmı ?

……

Dünya'nın uydusu olan ay ışık yaymaz.

……

Her gün düzenli olarak gazate okur.

……

1-A sınıfı öğrencileri TBMM'ni gezdi.

……

Çocuklar kipritle oynamamalıdır.

……

Evde ki hesap çarşıya uymuyor.

……

Kalpinden geçenleri bir tek o biliyordu.

……

Örümcek Adam filimlerini çok sever.

……

Okul da öğrendiklerimizi ev de mutlaka tekrar etmeliyiz.

……

ÇOCUK HAKLARI

❖ Çocukların sahip olduğu hakların başındaki gülümseyen suratları boyayınız.

☺	Öğretmen seçme hakkı	☺	Oyun oynama hakkı.
☺	Eğitim hakkı.	☺	Yaşama hakkı.
☺	Sağlık hakkı.	☺	Basit işlerde çalıştırılma.
☺	Dinlenme hakkı.	☺	Beslenme hakkı.

❖ Aşağıda verilen çocuk haklarını uygun görselin altına yazınız.

Düşünme hakkı	Ailesiyle birlikte yaşama hakkı	Beslenme hakkı
Eğitim hakkı	Oyun oynama hakkı	Sağlık hakkı

.....

.....

.....

.....

.....

.....

❖ Zeynep'in hangi haklarının çiğnendiğini yandaki kutucuğa yazalım. Böyle bir durumda Zeynep'in ne yapması gerekir? Yazınız.

Sokakta mendil satmamı istiyorlar.

Çok hastayım ama doktora gidemiyorum.

Doktor olmak istiyorum. Ama izin verilmiyor. "Kızlar okumaz." deniyor.

Dışarı çıkmama hiç izin verilmiyor.

.....
.....
.....
.....
.....
.....
.....
.....
.....
.....
.....
.....
.....

❖ Aşağıdaki bilgileri eşleştiriniz.

1	Her yıl 20 Kasım'da tüm ülkelerde kutlanır.		Çocuk
2	Anne ve baba çocuklarının haklarını koruyamazsa çocuklara yardımcı olan kurumdur.		Dünya Çocuk Hakları Günü
3	Dünyadaki bütün ülkelerin temsilcilerinin katıldığı örgüttür.		Çocuk Hakları Sözleşmesi
4	Çocuk haklarını garanti altına alan ve koruyan belge		Devlet
5	18 yaşından küçük bireylere denir.		Birleşmiş Milletler

❖ Aşağıda Çocuk Hakları Sözleşmesi'nin bazı maddeleri verilmiştir. Cümlelerde yer alan boşlukları verilen uygun kelimelerle tamamlayınız.

- Her birey on sekiz yaşına kadar ……. olarak kabul edilir.
- Her çocuğun bir ……. ve vatandaşlığa sahip olma hakkı vardır.
- Her çocuğun ……. birlikte yaşama hakkı vardır.
- Her çocuğun duygu ve ……. istediği şekilde açıklama hakkı vardır.
- Her çocuğun ……. hizmetinden yararlanma hakkı vardır.
- Çocukların ……. hakkı vardır.
- Çocukların ……. oynama hakkı vardır.
- Hiç kimse çocukların …… kıramaz.
- Çocukların yetişkinler gibi ……. yasaktır.
- Her çocuğun …… ortamında yaşama ve savaşlardan korunma hakkı vardır.

çalıştırılması | ailesiyle | onurunu | isme | sağlık | barış

çocuk | devlet | oyun | düşüncelerini | okula gitme

SİMETRİ ÇİZGİSİ

❖ Her şekle bir simetri çizgisi çizin.



AYNADAKİ GÖRÜNTÜ

❖ Şekli tamamlamak için her bir öğenin ayna görüntüsünü çiziniz.



MİLİMETRE CİNSİNDEN ÖLÇELİM

❖ Görsellerdeki nesnelerin uzunluklarını cetvel ile ölçelim ve milimetre cinsinden yazalım.

a)

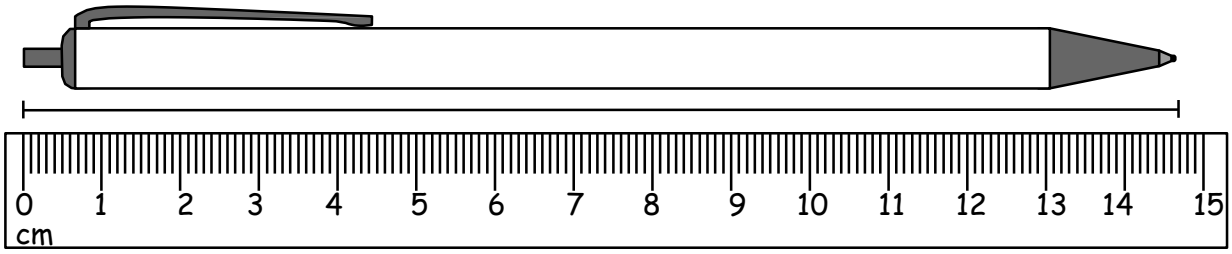

_____

b)

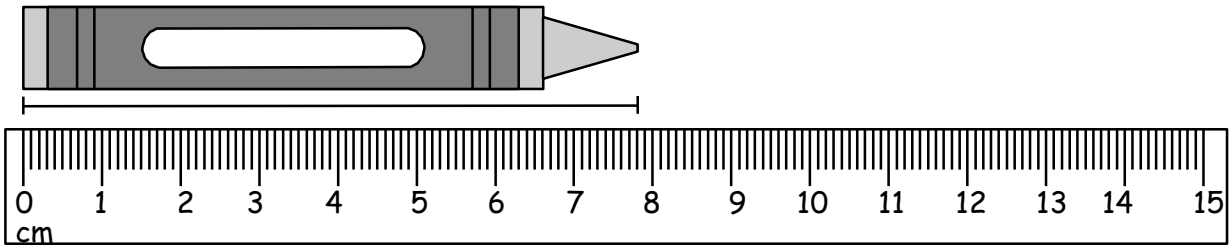

_____

c)

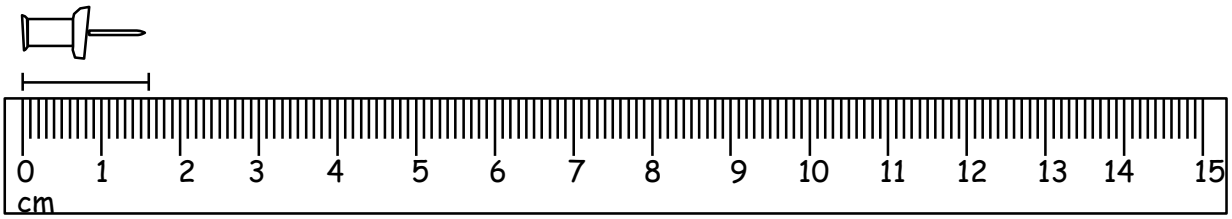

_____

d)

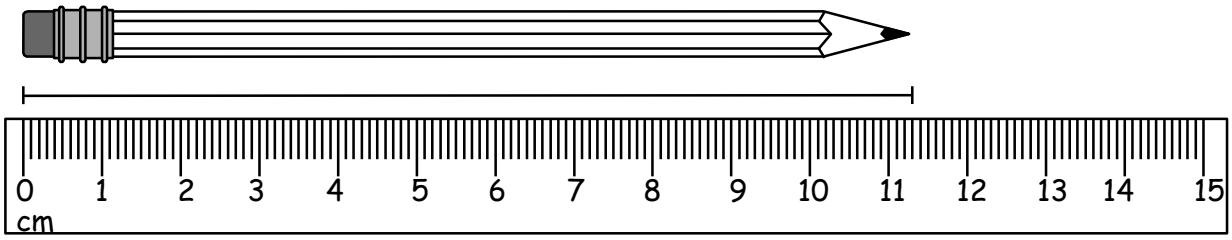

_____

IŞIK KİRLİLİĞİNİ AZALTMAYA YÖNELİK ÇÖZÜMLER

❖ Aşağıdaki görseli inceleyiniz. Verilen soruları görsele göre cevaplayınız.

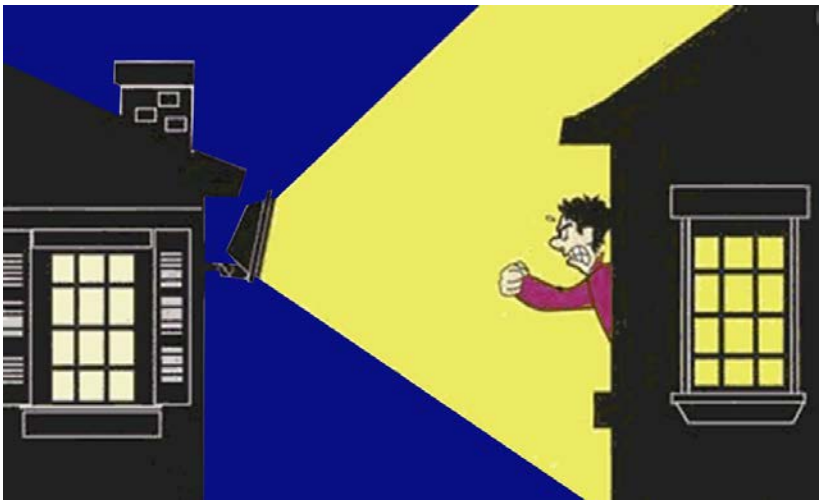

1) Sürekli aydınlık olan bir evde yaşamak ister miydin?

……
……
……

2) Ali Bey komşusuna ne söylemiş olabilir?

……
……
……

3) Siz olsaydınız bu soruna nasıl bir çözüm yolu önerirdiniz?

……
……
……

❖ Ayşe Hanım'ın şiddetli şekilde başı ağrımaktadır. Sizce nedeni ne olabilir? Böyle bir sağlık sorunuyla karşılaşmamak için neler yapmalıdır? Aşağıdaki boşluğa yazınız.

……

……

……

❖ Aşağıdaki çiçekleri cümle doğru ise yeşil renge, yanlış ise kırmızı renge boyayalım.

Işık kirliliği göçmen kuşların yönlerini bulmasını sağlar.

Işık kirliliği insan sağlığını olumsuz etkiler.

Aşırı aydınlatılmış ortamlar görmeyi kolaylaştırır.

Binalarda harekete duyarlı lamba kullanmak ışık kirliliğini önler.

Geceleri daha iyi görmek için her yeri aydınlatmalıyız.

Yumurtadan çıkan kaplumbağa yavruları fazla ışıkta denize ulaşamazlar.

❖ Categorize the words.

socks – hat – May – spring – rainy – June – sunny – sunglasses - August
fall – winter – December – cold – summer – snowy - skirt

MONTHS	SEASONS	WEATHER	CLOTHES

❖ Read and colour.

She has a yellow t-shirt and a red skirt.She has blue shoes.

He has a green shirt and a grey tie.He has a black belt and black trousers.He has brown shoes.

She has a pink t-shirt and purple shorts.She has orange slippers.

❖ Read and complete the sentences.

I am sorry. It is dirty.

What are the winter months?

Put on your gloves.

It is cool and rainy.

What season is it?

No, sorry. It is broken.

May I borrow your cap?

What do you need for your summer vacation?

1. A: May I borrow your umbrella?

   B: …… .

2. A: …… ?

   B: They are December, January and February.

3. It is cold and snowy. …… .

4. A: The weather is hot. Can I borrow your t-shirt?

   B: ……

5. A: ……?

   B: Of course. Here you are.

6. A: What is the weather like in fall?

   B: …… .

7. A: ……?

   B: I need my shirt and my shorts.

8. A: ……?

   B: It is spring.

❖ Read the text and write TRUE or FALSE.

THE WEATHER REPORT

Good morning! Today is Sunday and it is the first day of April.

Here is the weather forecast for the south of Turkey. In Antalya,the weather is hot today. The sky is clear. You can put on your slippers and go to the seaside. Enjoy the sunny weather.

In the north of the Turkey, it is rainy and cool in Sinop. Don't forget to take your umbrella and put on your raincoat if you want to go outside.

It is sunny in Bursa. The sun is shining. You will need your sunglasses. It is a beautiul day, isn't it?

Van is cloudy and cold today. It is not a very nice day. There are clouds in the sky. In the evening, there is a strong wind. Be careful!

Have a nice day! Good bye!

…… 1.The weather is rainy in Sinop.

…… 2.It is a winter time.

…… 3.Bursa is rainy and cloudy.

…… 4.Van is cloudy and windy today.

…… 5.Today is sunny and hot in Antalya.

…… 6.You can swim in Antalya today.

…… 7.Today is Wednesday.

…… 8.You need gloves in Sinop.

…… 9.Wear your jacket in Van.

…… 10.You should wear your raincoat and take your umbrella in Bursa.

HZ. MUHAMMED'İ (S.A.V) TANIYALIM

❖ Aşağıdaki kavramların yazımındaki hataları düzelterek doğrularını altlarındaki kutucuklara yazınız.

İFTA ……	ARİS ……	ÇAMİR ……
DEYYEBİHU ……	HİRAMUC ……	NASRE ……

❖ Aşağıdaki tabloda yer alan olayları, meydana geliş sürecine uygun olarak baştan sona doğru başındaki kutucuklara numara vererek sıralayınız.

….	Hz. Muhammed'in Vefatı
….	Hudeybiye Anlaşması
….	Peygamberimizin Hicreti
….	Mekke'nin Fethi
….	İsra ve Miraç Mucizesi
….	Mescid-i Nebi (Peygamber Mescidi'nin İnşaası)
1	Taif Yolculuğu

❖ Aşağıdaki tabloda Peygamber Efendimiz Hz. Muhammed (S.A.V) 'in Medine yıllarındaki önemli olaylar ile ilgili birer ipucu veriyoruz. Bu ipucu yetmezse ikinci ipucunu da veriyoruz. Eğer cevabı birinci ipucuyla bulursanız 100 puan, ikinci ipucuyla bulursanız 50 puan kazanacaksınız. Şimdiden kolay gelsin.

S.N	1.İpucu	2.İpucu	CEVAP	PUAN
1	Hz. Hatice (r.a.) ve Ebu Talip'in vefatından sonra yaşandı.	Hz. Peygamberin bir gece Mescid-i Haram'dan Kudüs'teki Mescid-i Aksâ'ya götürülmesi.		
2	Hz. Muhammed'in (s.a.v.) Medine'ye varır varmaz yaptığı ilk iştir.	Hz. Muhammed'in (s.a.v.) kabri de bu mescidin içindedir.		
3	Kan akıtılmadan, savaş yapılmadan kazanılan ilk zaferdir.	630 yılında müşriklerin Müslümanlarla yaptıkları Hudeybiye Antlaşmasını bozmaları sonucu gerçekleşti.		
4	Veda Haccı bu yılda gerçekleşmiştir.	Peygamberimiz bu yılda vefat etmiştir.		

❖ Aşağıdaki cümleler doğruysa **EVET** kutusunu, yanlış ise **HAYIR** kutusunu çarpı **(X)** işareti ile işaretleyiniz.

		EVET	HAYIR
1	Müslümanlarla Mekkeli müşrikler arasında 628 yılında Hudeybiye Antlaşması imzalandı.		
2	Hz. Muhammed (s.a.v.) Medine'de yaşayan sadece putperestlerle bir antlaşma yaptı.		
3	Hz. Peygamberin mescidine "Mescid-i Nebi" yani "Peygamber Mescidi" denir.		
4	Peygamber Mescidinin bir bölümü Hz. Peygamberin eviydi. Mescitte "suffe" denilen bir bölüm daha vardı. İsteyen sahabiler burada kalır ve Hz. Peygamberden ilim öğrenirlerdi.		

YOLCULUK STRATEJİ OYUNU

Malzeme: Kâğıt, kalem, taş (düğme, kapak veya benzeri evde bulunan cisimler)
Taş sayısı: 6+6+6+6 (farklı renklerde olmalıdır).
Oyuncu Sayısı: 2-4

OYNAMA ŞEKLİ

- Oyuna kura ile başlanır.
- Oyuncular kendi taşlarını seçer.
- Taşlar oyun tahtasına **şekil 1**'de **(**Kâğıda çizerek oynayabilirsiniz) gösterildiği gibi yerleştirilir.
- Oyuncu sırayla bir taşını boş bir kareye götürür. (Bu komşu bir kare olmak zorundadır ancak diğer oyuncuların taşları üzerinden atlayamaz). Taşlar yatay, dikey ve çapraz hareket eder.
- Oyuncuların oynama sırası saat yönüne göredir. Örnek: Oyuna başlayan oyuncu turuncu ise 2. oyuncu yeşil, 3. oyuncu siyah ve 4. oyuncu mavi olacak şekilde oynanır.
- Taşların tamamını herhangi bir köşeye başlangıçtaki gibi dizen oyuncu oyunu kazanır.

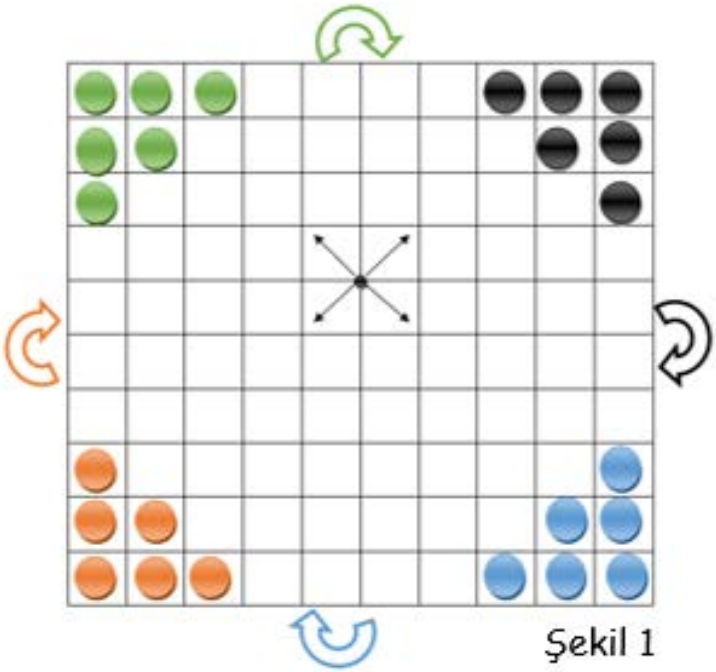

Şekil 1

TACTIX OYUNU

TACTIX oyunu çeşitli şekillerde oynanabilen, daha doğrusu oyun çeşitliliği oyuncuların isteğine bağlı olan bir zekâ ve strateji oyunudur.

Malzeme: Kâğıt, kalem, taş (düğme, kapak veya benzeri evde bulunan cisimler).

Taş sayısı: 16 (aynı renklerde olmalıdır.) **Oyuncu Sayısı:** 2

OYNAMA ŞEKLİ

- Oyuna kimin başlayacağı kura ile belirlenir.
- TACTIX oyunu 4X4 dizilimiyle başlar (Şekil 1).
- Sırası gelen her oyuncu satır ya da sütun boyunca birbiri ile bağlantılı pullardan istediği kadarını alabilir.
- Aynı anda farklı satır ve sütunlardan taş alınamaz.
- Çapraz şekilde taş alınamaz.
- Aynı satır ve sütunda yer alan taşlar arasında boşluk varsa taşlar aynı anda alınamaz (Alınacak taşlar yan yana olmak zorundadır).
- Sırası gelen oyuncu mutlaka taş almalıdır. Yani pas geçemez.
- Her oyuncu bir hamle yapar ve sıra rakibine geçer.
- Son taş kime kalırsa oyunu kaybeder.
- Yani amaç son taşı rakibin almasını sağlamaktır.

Not: Oyun, 'Son taşı alan oyuncu kaybeder.' kuralı ile oynanacağı gibi 'Son taşı alan oyuncu kazanır.' kuralı ile de oynanabilir. Ancak oyuna başlamadan önce bu kural açık bir şekilde belirlenmelidir.



Şekil 1

LABİRENT OYUNU

- Sevgili öğrenciler, labirent bulmacayı çözerken önce gidilecek yolları parmağınızla ya da gözünüzle takip ederek bulun. Daha sonra kalem ile doğru yolu çizin ve en sonunda da doğru yolu boyayın.

Bunu Biliyor muydunuz?



- Dünya, Güneş'e en yakın konumdayken Kuzey Yarımküre'de kış mevsimi yaşanır. Çünkü mevsimlerin oluşma nedeni Dünya'nın Güneş'e olan mesafesindeki değişimler değil Dünya'nın eksen eğikliğidir.

- Develer yaklaşık bir hafta boyunca su içmeden hareket edebilir. Bu durumun nedeni develerin kırmızı kan hücrelerinin hayli esnek ve oval bicide olmasıdır. Develer susuz kalıp kanları koyulaştığında, oval şekilli hücreler, kanın damarlarda daha kolay akmasını ve çok ince damarlarda bile hareket etmesini sağlar.

ŞEKİLLERİ RESİMDE BULALIM